المملكة العربية السعودية وزارة التعليم ادارة التعليم بمحافظة مدرسة :	وزارة التعليم Ministry of Education	اختبار : مادة الرياضيات فصل(٩): القيمة المنزلية للصف: الأول ابتدائي لعام ١٤٤٤

الإسم : ..... الصف : أولى / .....

س١: مع خولة ١٠ خرزات . إذا وضعت كل ٥ منها في خيط، فكم خيطاً تحتاج إليه ؟

..... خيط

س٢: أقرأ العدد ثم أكتبة :

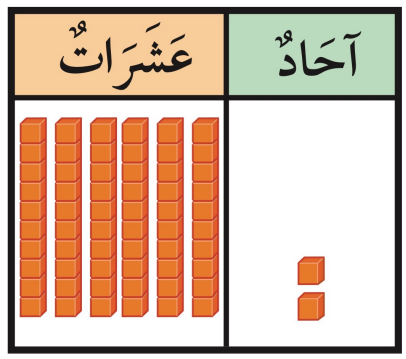

..... آحاد و ..... عشرات
أكتب: .....

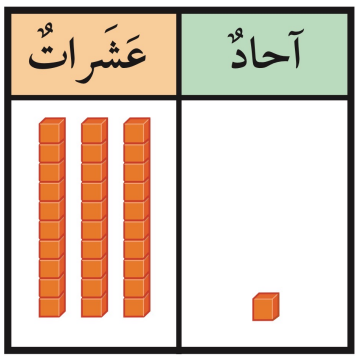

..... آحاد و ..... عشرات
أكتب: .....

س٣: قارن بين الأعداد وأكتب إشارة (> أو < أو =) في ◯

٣٤ ◯ ١١	٣٦ ◯ ٣٦	٥١ ◯ ٩٩

س٤:

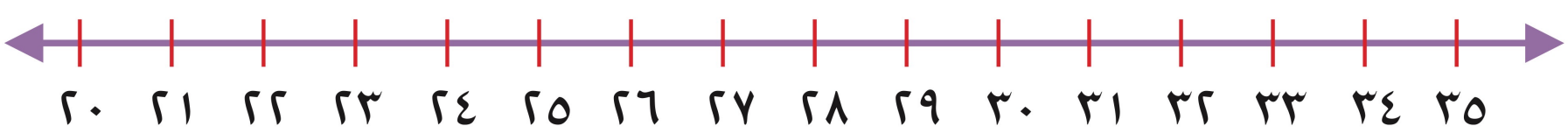

أكتب العدد الذي **يسبق** مباشرة: ٣٤ ، ...	أكتب العدد الذي **يلي** مباشرة: ٢٦ ، ...	أكتب العدد الواقع **بين** العددين: ٣١ ، ... ، ٣٣