ملزمة وأوراق عمل مادة العلوم
للصف الأول ابتدائي
الفصل الدراسي الثالث

سكرة الشمري

الوحدة الخامسة :

الطقس

الفكرة العامة (ماذا أعرف عن الطقس)

سكره الشمري

الفصل الثامن

الطقس من حولنا

***نصل الكلمات التالية بالصور المناسبة لها :**

ممطر

غائم

مثلج

مشمس

- **ماذا نستخدم في حالة المطر الشديد ؟**

سكره الشمري

الفصل الثامن

الطقس من حولنا

حسب الصور التالية مأدوات الطقس المناسبة لكل عبارة :

مقياس الحرارة

دوارة الرياح

مقياس المطر



- **عن ماذا تعبر الصورة التالية :**

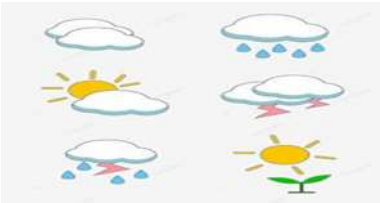

.....

سكره الشمري

الفصل الثامن

الفصول الأربعة

نكتب كلمة (الصيف الربيع الشتاء الخريف) تحت الفصل المناسب :



***نكمل الناقص فى الصورة التالية :**

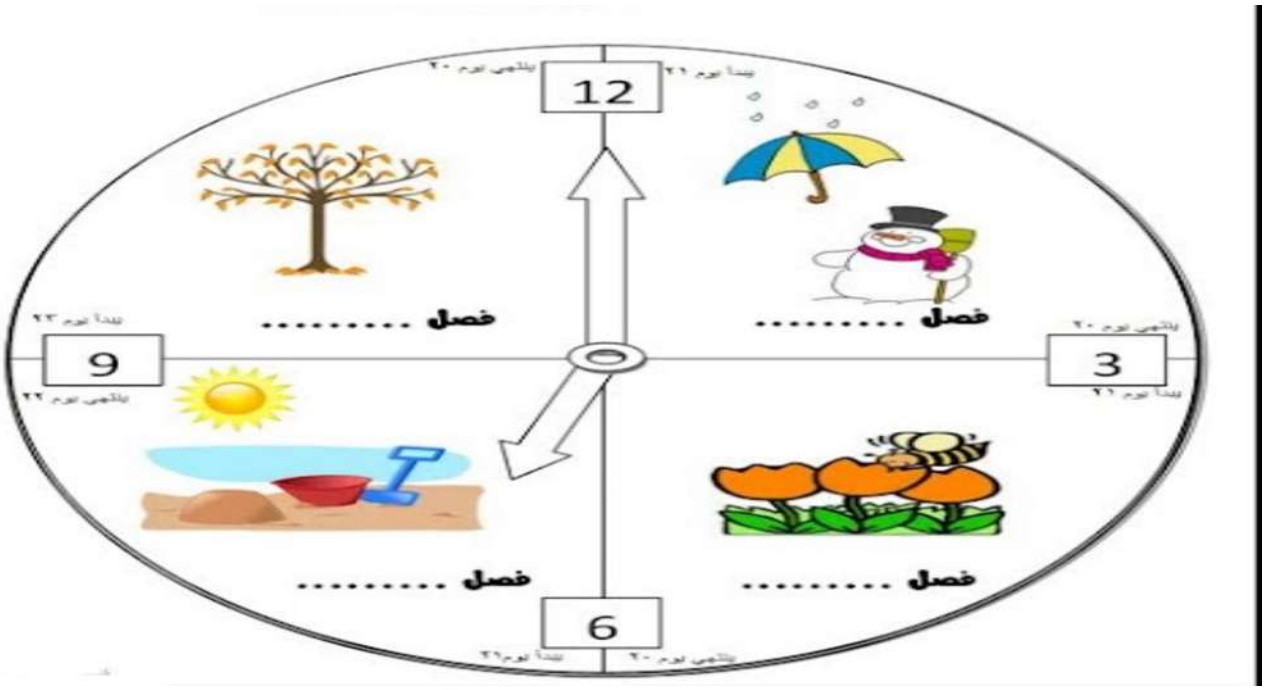

سكره الشمري

الفصل الثامن

الفصول الأربعة

ياصغاري هيا نختار الملابس المناسبة للفصول :

الشتاء

الصيف

- **نلون الفصل وملابسه ثم نكتب اسمه :**



أسم الفصل .....

سكره الشمري

الوحدة السادسة :

الحركة والطاقة

الفكرة العامة (كيف نحرك الأشياء)

سكره الشمري

الفصل التاسع

الموقع والحركة

- **نحدد موقع الأشياء ب (تحت فوق خلف يمين)**

(.....)

نصف نوع الحركة فى الصور التالية :

(.....) (.....) (.....)

سكره الشمري

الفصل التاسع

الموقع والحركة

تحت كل صورة نكتب نوع الحركة :

(خط مستقيم – حركة دائرية – إلى الأمام و إلى الخلف)

1. .....

2. .....

3. .....

4. .....

5. .....

- **هل العبارات التالية صحيحة :**

١ الدراجة اسرع من السيارة (.....)

٢ يغير الجسم موقعه عندما يتحرك (.....)

سكره الشمري

الفصل التاسع

الدفع والسحب

مالذي يغير حركة الأشياء ؟

.....

نضع دائرة حول الإجابة الصحيحة :

دفع - سحب

دفع - سحب

دفع - سحب

دفع - سحب

دفع - سحب

دفع - سحب

دفع - سحب

سكره الشمري

الفصل التاسع

الدفع والسحب

مانوع القوة فيما يلي (سحب دفع جاذبية احتكاك)

.....

....

نلون الإجابة حسب الصورة :



سكره الشمري

الوحدة السادسة :

الطاقة

الفكرة العامة (ماالطاقةُ)

سكره الشمري

الفصل العاشر

الطاقة و الحرارة

نصل المفاهيم التالية بالعبارة المناسبة :

الطاقة	طاقة تسخن الأشياء
الحرارة	تجعل الأشياء تعمل وتتغير

مالصورة التى تعد مصدر للطاقة الضوئية :



صح ام خطأ

الحرارة طاقة تسخن الأشياء . ( )

سكره الشمري

الفصل العاشر

الطاقة والحرارة

نكتب مصادر الحرارة بجانب كل صورة (الاحتكاك
احتراق الخشب الغاز)

مامصدر الطاقة الحرارية على الأرض ؟

.....

.....

سكره الشمري

الفصل العاشر

الضوء والصوت

نصل الصورة بالكلمة المناسبة :

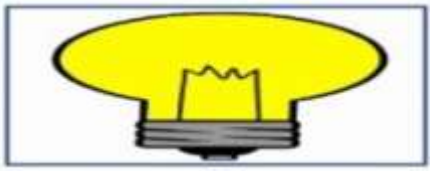

الحـــرارة
الصـــوت
الكـــهرباء
الضـــوء

نضع إشارة صح تحت الجسم المعتم واشارة خطأ تحت الجسم الشفاف

سكره الشمري

الفصل العاشر

الضوء والصوت

*** ايهما يصدر صوت :**



....

صَل مصدر الصوت مع فائدته :



سكره الشمري